INDHOLDSFORTEGNELSE

1. Træk tal fra 10 - illustrationer
2. Træk tal mellem 1 og 10 fra hinanden - illustrationer
3. Introduktion til talllinje - træk tal mellem 1 og 10 fra hinanden
4. Træk tal mellem 1 og 10 fra hinanden - tallinje
5. Træk tal mellem 1 og 10 fra hinanden - illustrationer
6. Træk tal mellem 1 og 10 fra hinanden - tallinje
7. Køb ind med en 10'er
8. Skriv regnestykket - illustrationer
9. Racerløb med regnestykker
10. 10'er-par
11. Minus og plus med 10'er-par
12. Køb ind med en 10'er mm.
13. Køb mere ind med en 10'er
14. Hvilket tal mangler i regnestykket?
15. Minusstykker med 20 - illustrationer
16. Minusstykker med 20 - tallinje
17. Minusstykker med 20 - illustrationer
18. Minusstykker med tal mellem 0 og 20 - tallinje
19. Minusstykker med tal mellem 0 og 20 - tallinje
20. Køb ind med 20 kr.
21. Køb ind med 20 kr.
22. Minusstykker med tal under 20 - tallinje
23. Minusstykker med tal under 20 - illustrationer og tallinje
24. Cykelløb med minusstykker med tal under 20 og flere minusstykker
25. Hvilket tal mangler i regnestykket?
26. Minusstykker med tal under 20 - tallinje
27. Minusstykker med tal under 20
28. Minusstykker med 10, 20 og 30
29. Tallinje fra 0 til 100
30. Plus- og minusstykker til tallinjen på side 27
31. "Skovtur" og flere regnestykker til tallinjen på side 27
32. Forskellige typer opgaver til tallinjen på side 27
33. Minusstykker, hvor tallene skrives under hinanden (minus etcifret tal)
34. Minusstykker, hvor tallene skrives under hinanden (minus etcifret tal)
35. Minusstykker, hvor der skal lånes en 10'er (minus etcifret tal)
36. Minusstykker, hvor der skal lånes en 10'er (minus etcifret tal)
37. Tæl baglæns og skriv tallet - 10'ere og 1'ere
38. Træk fra tal mellem 20 og 28 (minus etcifret tal)
39. Træk fra tal mellem 30 og 38 (minus etcifret tal)
40. Træk tocifrede tal fra hinanden
41. Træk tocifrede tal fra hinanden
42. Træk tocifrede tal fra hinanden
43. Træk større tocifrede tal fra hinanden
44. Træk større tocifrede tal fra hinanden. Skriv selv regnestykket
45. Træk større tocifrede tal fra hinanden. Skriv selv regnestykket
46. Kørekort til minus - 1
47. Kørekort til minus - 2

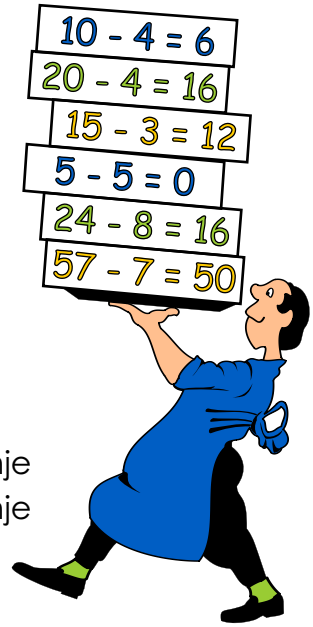

© www.caleidos.dk - Minus

A. Tæl baglæns fra 10 til 0.

10										0

B. Træk fra som vist.

8 - 3 = 5



7 - 3 =

9 - 5 =



10 - 9 =



6 - 3 =



5 - 1 =

7 - 2 =

4 - 3 =



10 - 5 =



8 - 6 =



IKKE TIL KOPI

© www.caleidos.dk - Minus

Hop baglæns på tal-linien, og regn ud som vist.



6 - 4 = 2

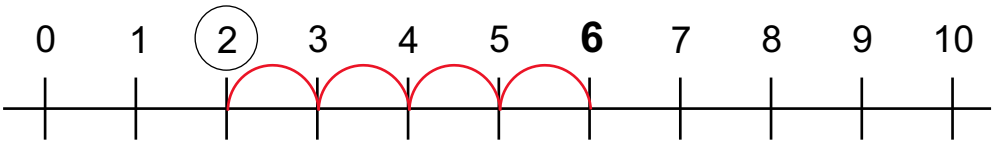

10 - 3 =

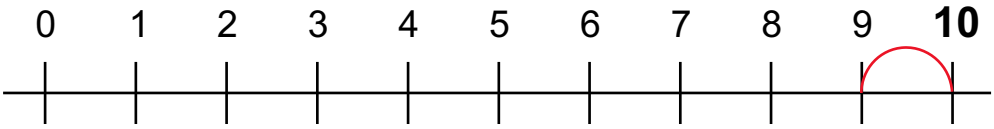

4 - 2 =

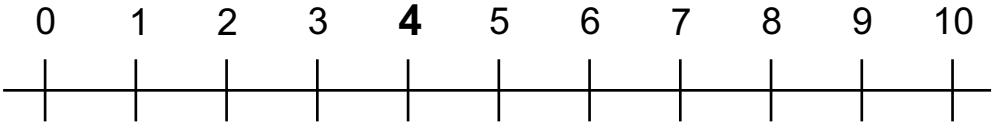

9 - 7 =

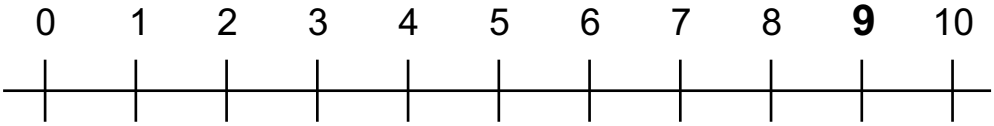

8 - 5 =

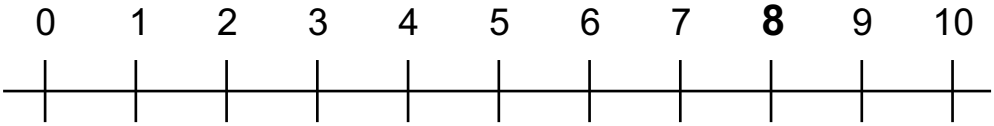

7 - 6 =

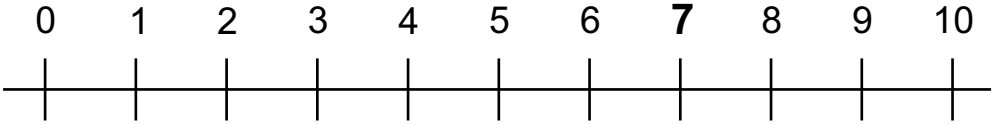

5 - 5 =

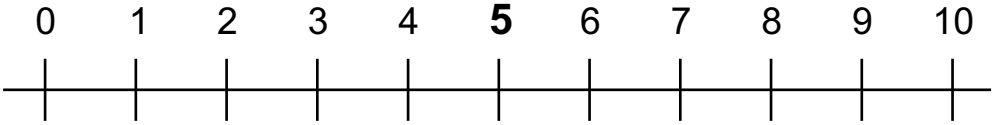

10 - 7 =

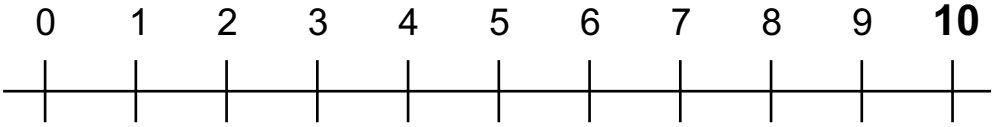

3 - 2 =

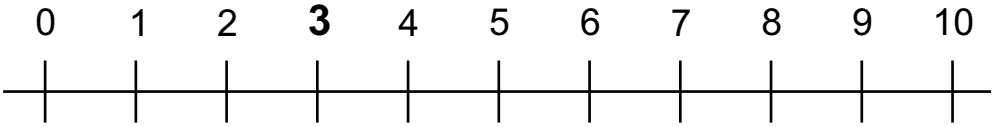

9 - 4 =

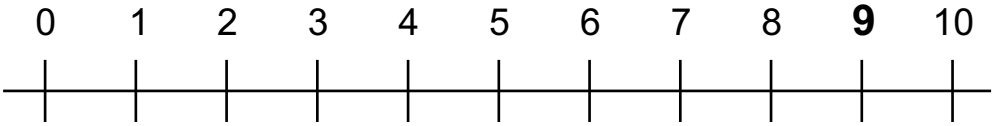

7 - 3 =

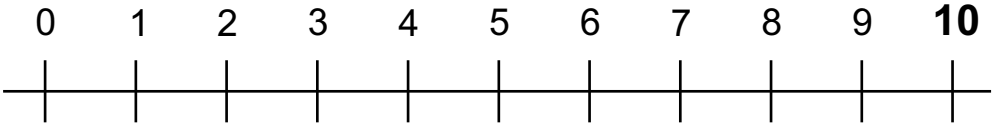

10 - 9 =

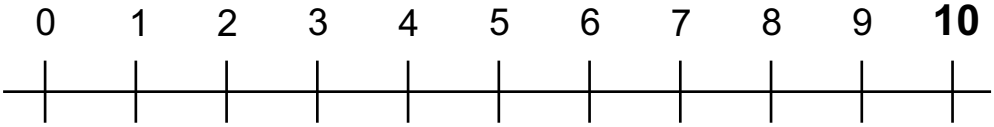

© www.caleidos.dk - Minus

A. Hvilken bil kommer først i mål? Brug regnestykkerne, som vist.

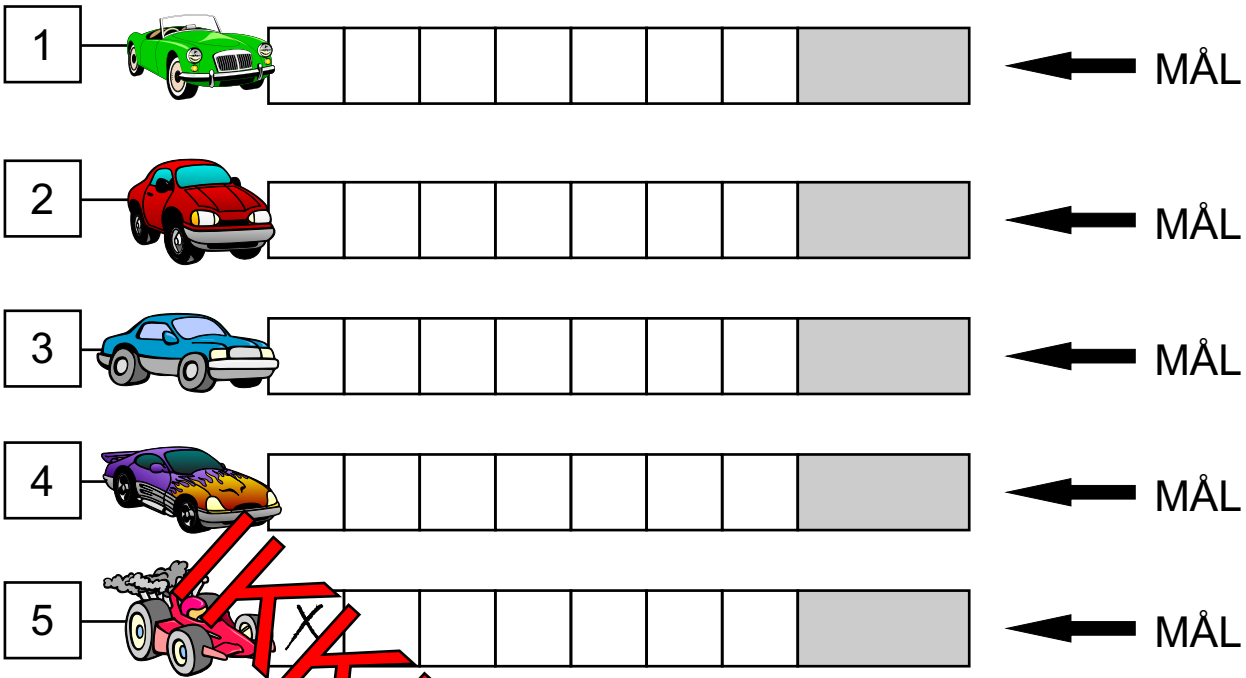

IKKE TIL KOPI

6 - 1 = 5	8 - 5 = _____	5 - 3 = _____
10 - 6 = _____	10 - 8 = _____	6 - 2 = _____
5 - 2 = _____	7 - 2 = _____	3 - 2 = _____
7 - 3 = _____	6 - 5 = _____	8 - 7 = _____
7 - 5 = _____	5 - 1 = _____	9 - 7 = _____
8 - 6 = _____	8 - 3 = _____	10 - 5 = _____
9 - 4 = _____	4 - 2 = _____	6 - 3 = _____
5 - 4 = _____	6 - 4 = _____	3 - 1 = _____

B. Regn både med plus og minus.

10 - 1 = _____	10 - 4 = _____	10 - 7 = _____
10	10	
9 + 1 = _____	6 + 4 = _____	3 + 7 = _____
10 - 2 = _____	10 - 5 = _____	10 - 8 = _____
10	10	
8 + 2 = _____	5 + 5 = _____	2 + 8 = _____
10 - 3 = _____	10 - 6 = _____	10 - 9 = _____
10	10	

© www.caleidos.dk - Minus

Køb ind, som vist. Brug tallinjen, hvis du vil.



8 - = 7

9 - =

5 - =

8 - =

6 -  =

7 - =

5 - =

9 - =

7 - =

8 - =

10 - =

9 - =

10 - =

8 - =

2 - =

4 - =

IKKE TIL KOPI

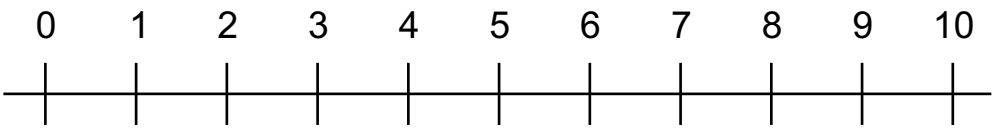

© www.caleidos.dk - Minus

A. Tæl baglæns fra 10 til 0 og fra 20 til 10.

10	9									0
20	19									10

B. Træk fra 20.

20 - 5 =

20 - 9 =

20 - 3 =

20 - 1 =

20 - 6 =

20 - 4 =

20 - 7 =

10 - 2 =

20 - 8 =

20 - 10 =



IKKE TIL KOPI

© www.caleidos.dk - Minus

Hop baglæns på tal-linien og regn ud.

14 - 2 = ☐

10 11 12 13 **14** 15 16 17 18 19 20

17 - 6 = ☐

10 11 12 13 14 15 16 17 18 19 20

19 - 4 = ☐

10 11 12 13 14 15 16 17 18 19 20

18 - 7 = ☐

10 11 12 13 14 15 16 17 18 19 20

15 - 2 = ☐

10 11 12 13 14 15 16 17 18 19 20

16 - 3 = ☐

10 11 12 13 14 15 16 17 18 19 20

11 - 1 = ☐

10 11 12 13 14 15 16 17 18 19 20

13 - 3 = ☐

10 11 12 13 14 15 16 17 18 19 20

19 - 7 = ☐

10 11 12 13 14 15 16 17 18 19 20

15 - 2 = ☐

10 11 12 13 14 15 16 17 18 19 20

20 - 8 = ☐

10 11 12 13 14 15 16 17 18 19 20

14 - 4 = ☐

10 11 12 13 14 15 16 17 18 19 20

IKKE TIL KOPI

© www.caleidos.dk - Minus

A. Tag på skovtur med + og - . Brug tallinjen på side 29.



IKKE TIL KOPI

B. Sæt streg mellem regnestykker, der giver samme resultat, som vist.

3 + 6 = 9	9 - 2 =
19 + 2 =	25 - 4 =
10 + 8 =	20 - 2 =
9 + 8 =	30 - 10 =
10 + 10 =	15 - 5 =
8 + 8 =	10 -1 = 9
5 + 2 =	19 - 3 =
9 + 1 =	20 - 3 =

© www.caleidos.dk - Minus

A. Træk tallene fra hinanden som vist.

17 - 4

1	7
	4
1	3

← det største tal øverst
← minus
← resultat

19 - 3

1	9
	3

13 - 1

1	3
	1

16 - 2

1	6
	2

1	4
	4

1	8
	6

1	7
	2

1	1
	1

1	9
	6

1	5
	3

1	6
	5

1	9
	4

1	3
	2

1	4
	3

1	8
	5

1	7
	6

1	8
	2

1	6
	4

1	9
	1

1	5
	1

1	7
	3

1	4
	1

IKKE TIL KOPI

B. Skriv regnestykket i kasserne og regn ud som vist.

18 - 4 =

1	8
	4

19 - 7 =

12 - 1 =

16 - 3 =

14 - 2 =

18 - 3 =

13 - 3 =

17 - 5 =

19 - 2 =

15 - 4 =

18 - 7 =

14 - 1 =

© www.caleidos.dk - Minus

A. Skriv tallet som vist.

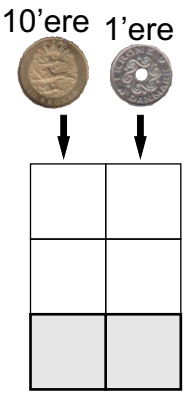

Nu skal du veksle en 10'er.

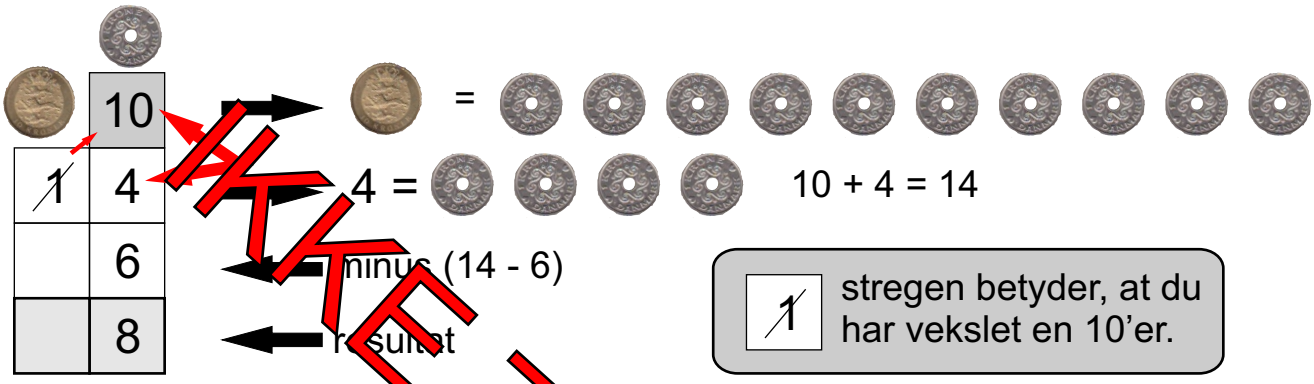

10 + 4 = 14

1 stregen betyder, at du har vekslet en 10'er.

IKKE TIL KOPI

B. Træk tallene fra hinanden.

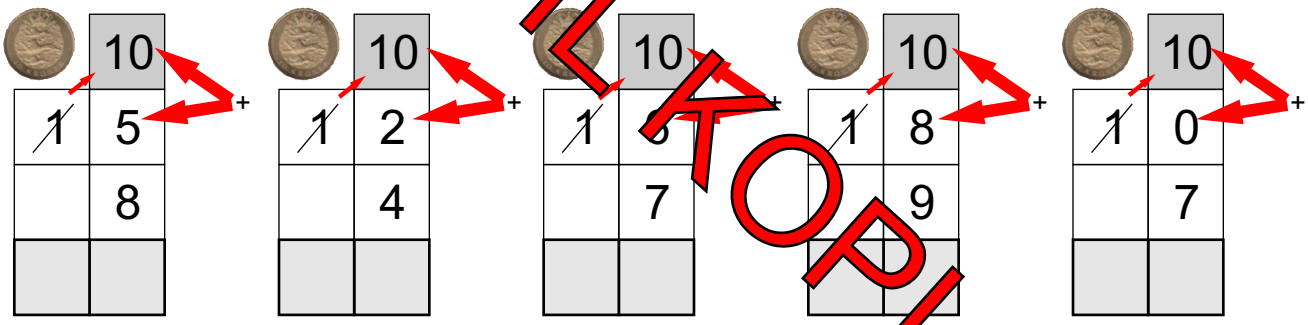

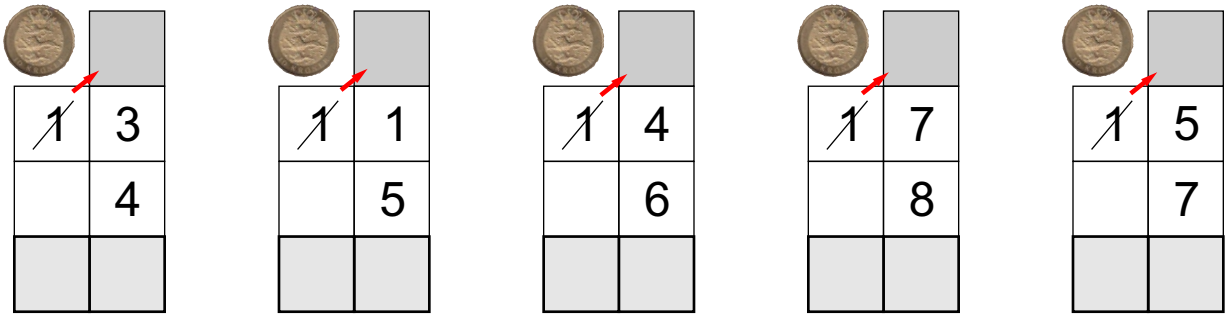

Husk at sætte streg, når du veksler en 10'er.

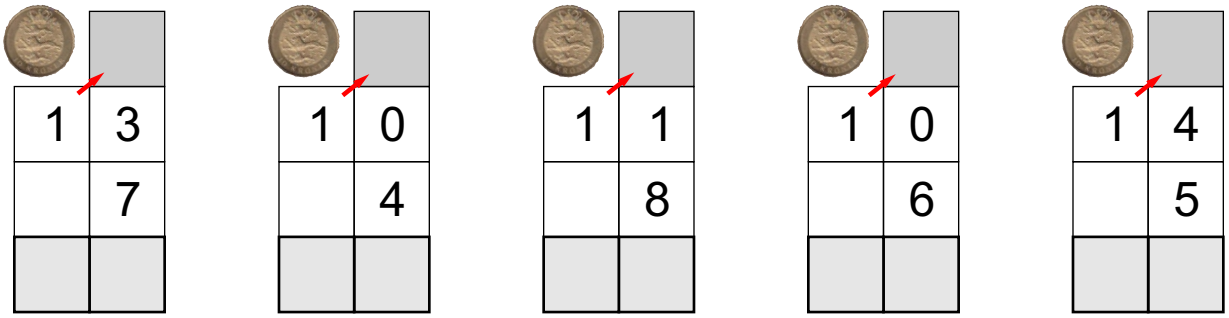

© www.caleidos.dk - Minus

KØREKORT TIL MINUS – 2

Opgave D. Træk tallene fra hinanden.

3	7
2	8

4	0
1	3

5	5
3	7

7	4
2	9

9	2
3	4

Opgave E. Træk tallene fra hinanden.

39 - 28 = ____

45 - 22 = ____

67 - 31 = ____

84 - 24 = ____

40 - 21 = ____

38 - 19 = ____

53 - 24 = ____

54 - 25 = ____

IKKE TIL KOPI

Opgave F. Skriv regnestykkerne og regn ud.

30 - 16	52 - 15	70 - 29	46 - 36
25 - 18	81 - 37	94 - 36	61 - 22

- ____ = ____

- ____ = ____

- ____ = ____

- ____ = ____

- ____ = ____

- ____ = ____

- ____ = ____

- ____ = ____

© www.caleidos.dk - Minus

SPIL MED MINUS



© www.caleidos.dk